Тренировочная работа №5 по ОБЩЕСТВОЗНАНИЮ
9 класс
17 мая 2022 года
Вариант ОБ2190501

Выполнена: ФИО_____ класс _____

Инструкция по выполнению работы

Тренировочная работа включает в себя 24 задания: 16 заданий с кратким ответом и 8 заданий с развёрнутым ответом.

На выполнение тренировочной работы по обществознанию отводится 3 часа (180 минут).

Ответы к заданиям 2–4, 7–11, 13, 14, 16–18 записываются в виде одной цифры, которая соответствует номеру правильного ответа. Ответом к заданиям 15, 19 является последовательность цифр. Ответом к заданию 20 является слово (словосочетание). Ответы запишите в поле ответа в тексте работы без запятых, пробелов и прочих символов.

Задания 1, 5, 6, 12, 21–24 выполняются на отдельном чистом листе. Для выполнения заданий 21–24 необходимо: выбрать нужную информацию из текста, раскрыть (в том числе на примерах) его отдельные положения; соотнести сведения из текста со знаниями, полученными при изучении курса; применить имеющиеся знания для анализа социальных ситуаций; высказать и обосновать собственное мнение.

Ответы записываются яркими чёрными чернилами. Допускается использование гелевой или капиллярной ручки.

При выполнении заданий можно пользоваться черновиком. **Записи в черновике не учитываются при оценивании работы.**

Баллы, полученные Вами за выполненные задания, суммируются. Постарайтесь выполнить как можно больше заданий и набрать наибольшее количество баллов.

После завершения работы проверьте, чтобы ответ на каждое задание был записан под правильным номером.

Желаем успеха!

скачано с сайта myotveti.ru

Для ответов на задания 1, 5, 6 и 12 используйте отдельные листы. Запишите сначала номер задания, а затем – ответ к нему. Ответы записывайте чётко и разборчиво.
Ответами к заданиям 2–4, 7–11, 13–20 являются цифра, последовательность цифр или слово (словосочетание).

1 Какие два из перечисленных понятий используются в первую очередь при описании духовной сферы общества?

Государство; ценности; инфляция; наука; обязанности.

Выпишите соответствующие понятия и раскройте смысл любого одного из них.
Ответ запишите на отдельном листе, указав номер задания.

2 Ярослав Иванов занимается хоккеем в составе детской хоккейной команды известного спортивного клуба. Для участия в региональном чемпионате молодые хоккеисты должны выполнить специальные нормативы, и Ярослав занимается общефизической подготовкой каждый день. Целью деятельности молодых хоккеистов является

1) ежедневные занятия
2) участие в региональном чемпионате
3) занятия хоккеем
4) специальные нормативы

Ответ: ☐

3 В городе открыли три новых детских сада, и теперь все дети младше 7 лет получили возможность посещать эти детские учреждения. К какому уровню образования в соответствии с законом «Об образовании в РФ» относится посещение детского сада?

1) среднее общее образование
2) основное общее образование
3) начальное общее образование
4) дошкольное образование

Ответ: ☐

скачано с сайта myotveti.ru

4 Верны ли следующие суждения об образовании?

А. Образование – это целенаправленный и единый процесс воспитания и обучения человека.

Б. Образование направлено на передачу социального опыта от поколения к поколению.

1) верно только А
2) верно только Б
3) верны оба суждения
4) оба суждения неверны

Ответ: ☐

5 Рассмотрите фотографию.

Какой вид экономической деятельности осуществляют люди, изображённые на фотографии?

Используя обществоведческие знания, факты социальной жизни и личный социальный опыт, сформулируйте два правила рационального осуществления этого вида деятельности, и кратко поясните каждое из правил.

Ответ запишите на отдельном листе, указав номер задания.

6 Гражданин А. потерял кошелёк, в котором были деньги, справки и пластиковая банковская карта. В чём состоит опасность данной ситуации для личных финансов гражданина А.? Как ему правильно поступить в данной ситуации?

Ответ запишите на отдельном листе, указав номер задания.

скачано с сайта myotveti.ru

7 Что из перечисленного относится к признакам рыночной экономики?

1) государственное ценообразование
2) использование факторов производства
3) высокий уровень развития сельского хозяйства
4) конкуренция товаропроизводителей

Ответ: ☐

8 В государстве Z снизили ставку подоходного налога. К какому виду налогов относится подоходный?

1) прямой
2) прогрессивный
3) косвенный
4) региональный

Ответ: ☐

9 Верны ли следующие суждения о деятельности предпринимателя?

А. Деятельность предпринимателя осуществляется с целью получения прибыли.

Б. Деятельность предпринимателя будет эффективной, если она направлена на производство товаров и услуг, которые удовлетворяют потребности людей.

1) верно только А
2) верно только Б
3) верны оба суждения
4) оба суждения неверны

Ответ: ☐

скачано с сайта myotveti.ru

10 Социологический опрос показал, что у значительной части опрошенных все члены семьи готовы к выполнению любых обязанностей и совместно решают все семейные вопросы. Такие отношения складываются в

1) патриархальной семье
2) демократической семье
3) традиционной семье
4) нуклеарной семье

Ответ: ☐

11 Верны ли следующие суждения о социальной мобильности?

А. Социальная мобильность – это сложившаяся в обществе система социальных ролей и статусов.

Б. Примером социальной мобильности является переезд в другой город.

1) верно только А
2) верно только Б
3) верны оба суждения
4) оба суждения неверны

Ответ: ☐

скачано с сайта myotveti.ru

12 В ходе опросов совершеннолетних граждан страны Z социологи изучали факторы, которые влияли на выбор ими профессии. Результаты опроса (в % от числа отвечавших, можно было дать до двух ответов) представлены на гистограмме.

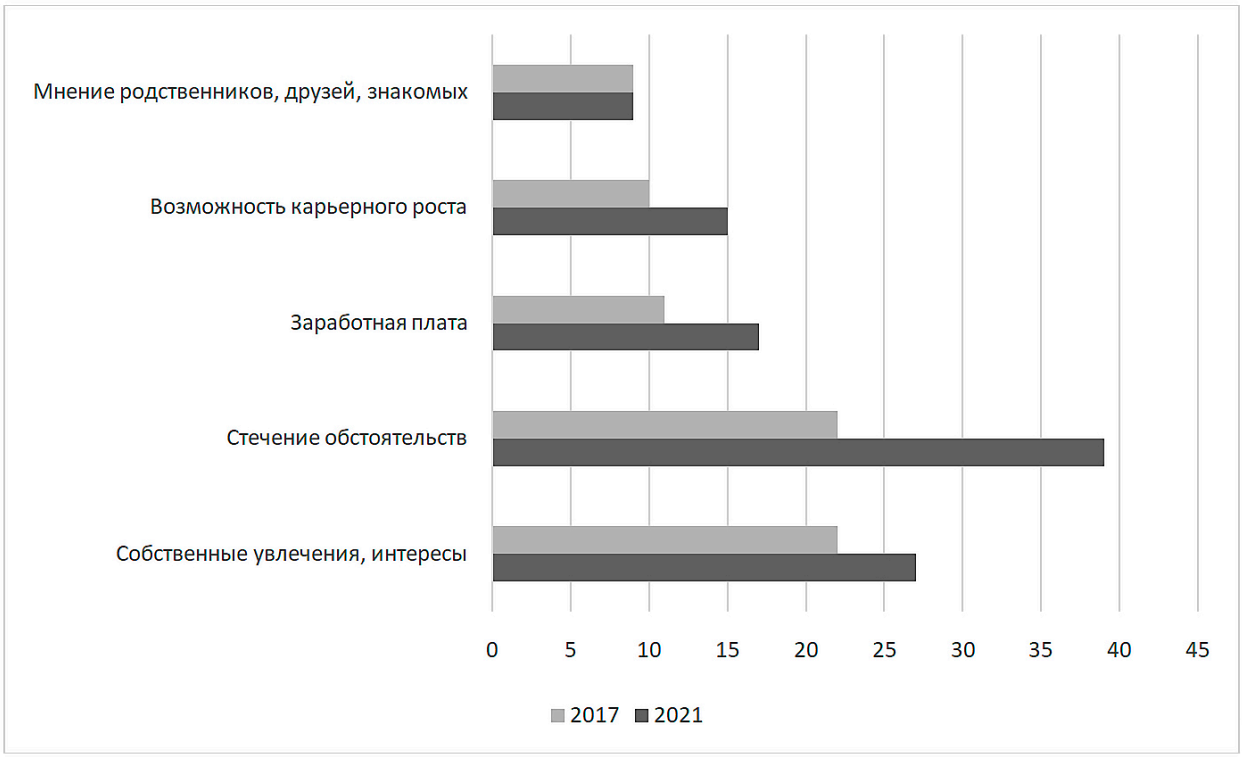

Сформулируйте по одному выводу: а) о сходстве и б) о различии в позициях групп опрошенных. Выскажите предположение о том, чем объясняются указанные Вами: а) сходство; б) различие.

Ответ запишите на отдельном листе, указав номер задания.

скачано с сайта myotveti.ru

13 В государстве Z верховная власть передаётся из поколения в поколение представителями одной династии. Государство образовано из нескольких областей, в каждой из которых действует избираемый населением представительный орган. Законы, принятые в каждой области, не могут противоречить конституции страны Z. На основе приведённых данных можно сделать вывод, что государство Z

1) республика
2) демократическое государство
3) светское государство
4) федерация

Ответ: ☐

14 Верны ли следующие суждения о политических партиях?

А. Политические партии стремятся участвовать в осуществлении государственной власти.

Б. Политические партии объединяют людей по профессиональному признаку.

1) верно только А
2) верно только Б
3) верны оба суждения
4) оба суждения неверны

Ответ: ☐

скачано с сайта myotveti.ru

15 Установите соответствие между примерами и особенностями человека как биологического или социального существа, которые они иллюстрируют: к каждому элементу первого столбца подберите соответствующий элемент из второго столбца.

ПРИМЕР

А) генетические заболевания
Б) острота зрения
В) умение водить машину
Г) ораторское мастерство
Д) физиологические потребности

ОСОБЕННОСТЬ ЧЕЛОВЕКА

1) человек как биологическое существо
2) человек как социальное существо

Ответ:

А	Б	В	Г	Д

16 Отношения в сфере управленческой деятельности государственных органов регулирует

1) гражданское право
2) трудовое право
3) административное право
4) уголовное право

Ответ:

17 Ольга Константиновна отправляется на курорт с пятилетним внуком Антоном. Для оформления доверенности на поездку родители Антона должны обратиться

1) к прокурору
2) в полицию
3) к нотариусу
4) к адвокату

Ответ:

скачано с сайта myotveti.ru

18 Верны ли следующие суждения о конституционных правах граждан Российской Федерации?

А. Право на свободу и личную неприкосновенность относится к группе политических прав.

Б. Право участвовать в управлении делами государства относится к группе гражданских прав.

1) верно только А
2) верно только Б
3) верны оба суждения
4) оба суждения неверны

Ответ: ☐

19 Школьники изучали сущность и содержание гражданской правоспособности и дееспособности. Выберите и запишите в первую колонку таблицы порядковые номера черт сходства гражданской правоспособности и дееспособности, а во вторую колонку – порядковые номера черт различия.

1) признание в равной мере за всеми гражданами
2) связь с правами и обязанностями граждан
3) возникновение в полном объёме по достижении восемнадцатилетнего возраста
4) возможность ограничения в случаях и в порядке, установленных законом

Ответ:

Черты сходства		Черты различия	

20 Заполните пропуск в таблице.

Характеристика государства Российская Федерация	**Сущность характеристики**
… государство	Государственная власть в Российской Федерации осуществляется на основе разделения на законодательную, исполнительную и судебную
Демократическое государство	Единственным источником власти является многонациональный народ

Ответ: _____.

скачано с сайта myotveti.ru

Прочитайте текст и выполните задания 21–24. Для записи ответов на задания используйте отдельные листы. Запишите сначала номер задания, а затем – развёрнутый ответ на него. Ответы записывайте чётко и разборчиво.

Взаимодействие человека и природы и осознание этого взаимодействия людьми допускает разные варианты, например, зависимость человека от природы; зависимость природы от человека; единство человека и природы. Все эти варианты отражены в истории человечества. Первый вариант взаимодействия человека и природы отразился в мифологических представлениях и в религиозных верованиях. Свою зависимость от природы человек выражал в представлениях о господстве внешних сил. Однако в борьбе за выживание человек не просто приспосабливался к природным условиям. Люди осваивали новые территории, постоянно совершенствовали орудия труда, одомашнили животных, освоили скотоводство и земледелие, заселили всю планету.

Своё господство над природой человек осознал в процессе накопления технологического и научного опыта. Он воспринимал себя в качестве субъекта творческой, активной преобразующей силы, а природу – в качестве объекта деятельности, допускающего любое воздействие. Это отношение человека к природе в середине XVII века выразил Галилео Галилей, который писал: «Все возникновения, изменения и т.д., какие только происходят на Земле, направлены для пользы, удобства и блага человека».

Осознание единства человека и природы мы переживаем в настоящее время. В массовом сознании идея единства человека и природы уже укоренилась. Она находит отражение в общественной практике, в формировании и совершенствовании экологического законодательства. Осознание единства человека и природы выражается в ответственности человека за свои действия перед природой.

(По М.Р. Шагиахметову)

21 Составьте план текста. Для этого выделите основные смысловые фрагменты текста и озаглавьте каждый из них.

22 В каких формах, по мнению автора, отразились представления о зависимости человека от природы? (Укажите две формы.) Какие виды опыта повлияли на осознание человеком своего господства над природой? (Укажите два вида.) В чём, по мнению автора, выражается осознание единства человека и природы?

скачано с сайта myotveti.ru

23 Как, по объяснению автора, воспринимал природу человек, осознавший своё господство над нею? Приведите два примера (ситуации) в различных сферах жизни общества, которые свидетельствуют об ошибочности подобного восприятия природы (сначала приведите пример, затем назовите сферу).

24 Автор приводит утверждение Г. Галилея о том, что «все изменения на Земле направлены для пользы, удобства и блага человека». Используя текст и обществоведческие знания, приведите два аргумента (объяснения), которые может высказать человек, не согласный с приведённым утверждением.

скачано с сайта myotveti.ru

Тренировочная работа №5 по ОБЩЕСТВОЗНАНИЮ
9 класс
17 мая 2022 года
Вариант ОБ2190502

Выполнена: ФИО_____ класс _____

Инструкция по выполнению работы

Тренировочная работа включает в себя 24 задания: 16 заданий с кратким ответом и 8 заданий с развёрнутым ответом.

На выполнение тренировочной работы по обществознанию отводится 3 часа (180 минут).

Ответы к заданиям 2–4, 7–11, 13, 14, 16–18 записываются в виде одной цифры, которая соответствует номеру правильного ответа. Ответом к заданиям 15, 19 является последовательность цифр. Ответом к заданию 20 является слово (словосочетание). Ответы запишите в поле ответа в тексте работы без запятых, пробелов и прочих символов.

Задания 1, 5, 6, 12, 21–24 выполняются на отдельном чистом листе. Для выполнения заданий 21–24 необходимо: выбрать нужную информацию из текста, раскрыть (в том числе на примерах) его отдельные положения; соотнести сведения из текста со знаниями, полученными при изучении курса; применить имеющиеся знания для анализа социальных ситуаций; высказать и обосновать собственное мнение.

Ответы записываются яркими чёрными чернилами. Допускается использование гелевой или капиллярной ручки.

При выполнении заданий можно пользоваться черновиком. **Записи в черновике не учитываются при оценивании работы.**

Баллы, полученные Вами за выполненные задания, суммируются. Постарайтесь выполнить как можно больше заданий и набрать наибольшее количество баллов.

После завершения работы проверьте, чтобы ответ на каждое задание был записан под правильным номером.

Желаем успеха!

скачано с сайта myotveti.ru

Для ответов на задания 1, 5, 6 и 12 используйте отдельные листы. Запишите сначала номер задания, а затем – ответ к нему. Ответы записывайте чётко и разборчиво.
Ответами к заданиям 2–4, 7–11, 13–20 являются цифра, последовательность цифр или слово (словосочетание).

1 Какие два из перечисленных понятий используются в первую очередь при описании политической сферы общества?

Нравственность; спрос; суверенитет; власть; банк.

Выпишите соответствующие понятия и раскройте смысл любого одного из них.
Ответ запишите на отдельном листе, указав номер задания.

2 Редакция журнала «Растения и животные» на деньги благотворительного фонда подготовила специальный выпуск, посвящённый исчезающим видам животных. К средствам данной деятельности относится(-ются)

1) редакция журнала
2) исчезающие виды животных
3) деньги благотворительного фонда
4) сотрудники редакции

Ответ: ☐

3 После успешного участия в творческом конкурсе тринадцатилетний Николай был зачислен в художественную студию при Доме детского творчества. Какому виду образования соответствует обучение в художественной студии?

1) дополнительное образование детей и взрослых
2) общее образование
3) среднее профессиональное образование
4) дополнительное профессиональное образование

Ответ: ☐

скачано с сайта myotveti.ru

4 Верны ли следующие суждения о функциях религии?
А. Религия регулирует поведение людей в обществе и воспитывает человека.
Б. Религия выполняет мировоззренческую функцию.

1) верно только А
2) верно только Б
3) верны оба суждения
4) оба суждения неверны

Ответ:

5 Рассмотрите фотографию.

Какой вид деятельности осуществляют члены семьи?
Используя обществоведческие знания, факты социальной жизни и личный социальный опыт, сформулируйте два правила рационального осуществления этого вида деятельности, и кратко поясните каждое из правил.
Ответ запишите на отдельном листе, указав номер задания.

6 Алина Альбертовна получила электронное письмо, которое содержало предупреждение о том, что произошла утечка базы данных клиентов известного банка. Для того, чтобы проверить наличие или отсутствие своих данных у взломщиков, клиенту предлагалось перейти по ссылке на указанный сайт и ввести данные своей карты. В чём состоит опасность данной ситуации для личных финансов Алины Альбертовны? Как ей правильно поступить в данной ситуации?
Ответ запишите на отдельном листе, указав номер задания.

скачано с сайта myotveti.ru

7 Что из перечисленного характеризует роль государства в смешанной экономике? Государство

1) выступает ведущим производителем товаров и услуг
2) устанавливает государственную собственность на факторы производства
3) устанавливает цены на товары и услуги
4) поддерживает конкуренцию производителей товаров и услуг

Ответ: ☐

8 Открытие новых залежей медных руд на территории государства стало сенсацией в СМИ. К какому фактору производства относятся медные руды?

1) предпринимательские способности
2) земля
3) капитал
4) труд

Ответ: ☐

9 Верны ли следующие суждения об инфляции?

А. При инфляции происходят длительный и устойчивый рост цен и снижение покупательной способности денег.

Б. В условиях инфляции растут деловая активность бизнеса и уровень жизни населения.

1) верно только А
2) верно только Б
3) верны оба суждения
4) оба суждения неверны

Ответ: ☐

скачано с сайта myotveti.ru

10 Получив образование в Медицинской Академии, бывшая медсестра Вера Петровна Осипова была назначена на должность участкового врача. В данной ситуации образование – пример

1) социальной иерархии
2) социального лифта
3) социального статуса
4) социальной роли

Ответ:

11 Верны ли следующие суждения о социальных санкциях?
А. Общественное осуждение – пример формальной социальной санкции.
Б. Все социальные санкции в демократическом обществе регулируются законодательно.

1) верно только А
2) верно только Б
3) верны оба суждения
4) оба суждения неверны

Ответ:

скачано с сайта myotveti.ru

12 Социологи провели опрос совершеннолетних мужчин и женщин о том, без чего они не могут представить свой день. Результаты опроса (в % от числа отвечавших, можно было дать несколько ответов) представлены на гистограмме.

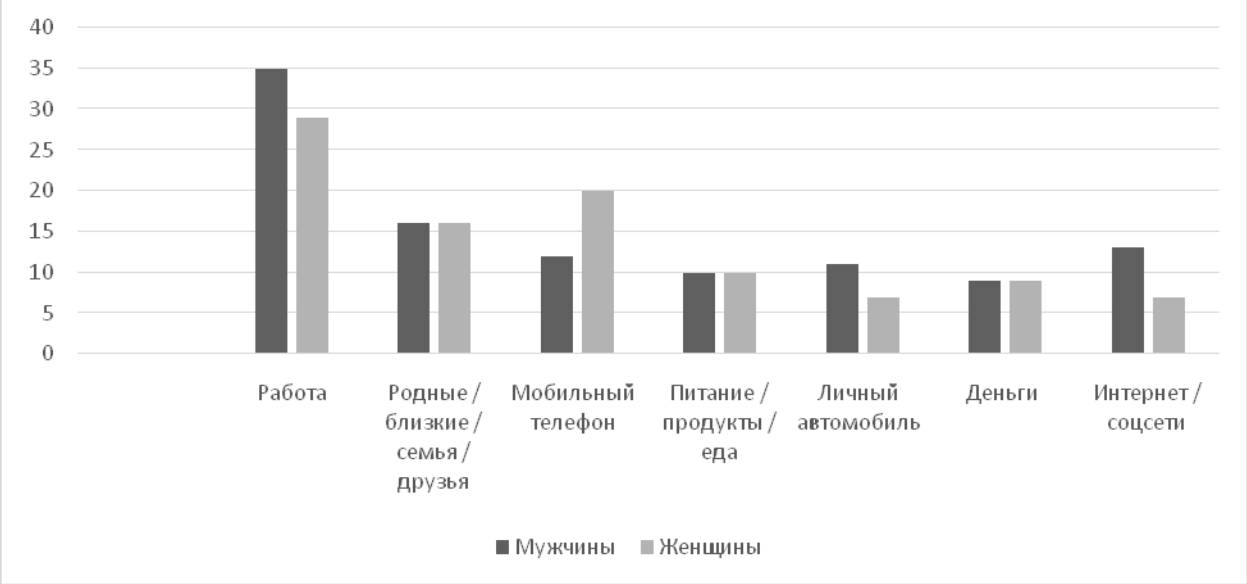

Сформулируйте по одному выводу: а) о сходстве и б) о различии в позициях групп опрошенных. Выскажите предположение о том, чем объясняются указанные Вами: а) сходство; б) различие.
Ответ запишите на отдельном листе, указав номер задания.

13 Правитель страны Z является главой правительства, председателем законодательного собрания, возглавляет судебную систему. Население страны Z имеет право избирать законодательное собрание, голосуя за кандидатов по списку главы правительства. Деятельность политических партий и организаций запрещена, частную жизнь людей контролируют правительственные органы. На основе приведённых данных можно сделать вывод что страна Z – государство

1) демократическое
2) монархическое
3) федеративное
4) тоталитарное

Ответ: ☐

скачано с сайта myotveti.ru

14 Верны ли следующие суждения о власти народа в Российской Федерации?

А. Народ осуществляет свою власть непосредственно, голосуя на выборах и референдумах.

Б. Народ осуществляет свою власть через избранные им органы государственной власти и органы местного самоуправления.

1) верно только А
2) верно только Б
3) верны оба суждения
4) оба суждения неверны

Ответ: ☐

15 Установите соответствие между примерами и функциями, которые выполняют деньги в этих примерах: к каждому элементу первого столбца подберите соответствующий элемент из второго столбца.

ПРИМЕР	ФУНКЦИЯ ДЕНЕГ
А) Чайный сервиз стоит 3 тыс. руб.	1) средство обращения
Б) Петровы приобрели компьютер.	2) мера стоимости
В) Многие используют Интернет для оплаты коммунальных платежей.	3) средство платежа
Г) В сетевом магазине можно оформить кредит на покупку товара.	
Д) В торговом зале меняли ценники на товары, срок годности которых заканчивается.	

Ответ:

А	Б	В	Г	Д

16 Одним из условий заключения брака в Российской Федерации является

1) получение среднего общего образования
2) наличие источников дохода
3) взаимное добровольное согласие будущих супругов
4) отсутствие хронических заболеваний

Ответ: ☐

скачано с сайта myotveti.ru

17 Желая проверить оперативность правоохранительных органов, гражданин сообщил по телефону о минировании вокзала. Действия гражданина нарушают нормы

1) конституционного права
2) уголовного права
3) административного права
4) гражданского права

Ответ: ☐

18 Верны ли следующие суждения о юридической ответственности?

А. Юридическая ответственность за совершение ряда преступлений установлена с четырнадцатилетнего возраста.

Б. Работник, не достигший совершеннолетия, не может быть привлечён к дисциплинарной ответственности.

1) верно только А
2) верно только Б
3) верны оба суждения
4) оба суждения неверны

Ответ: ☐

19 Всеволод делает уроки, а его сестрёнка Наташа играет в куклы. Выберите и запишите в первую колонку таблицы порядковые номера черт сходства учебной и игровой деятельности, а во вторую колонку – порядковые номера черт различия.

1) помогает познать окружающий мир
2) формирует качества личности
3) протекает в воображаемой ситуации
4) ведущей целью является освоение знаний, умений и навыков

Ответ:

Черты сходства		Черты различия	

скачано с сайта myotveti.ru

20 Заполните пропуск в таблице.

Субъект государственной власти	**Полномочие**
Конституционный суд Российской Федерации	Разрешает дела о соответствии федеральных законов Конституции Российской Федерации
… суд Российской Федерации	Высший судебный орган по гражданским делам, разрешению экономических споров, уголовным, административным делам

Ответ: _____.

Прочитайте текст и выполните задания 21–24. Для записи ответов на задания используйте отдельные листы. Запишите сначала номер задания, а затем – развёрнутый ответ на него. Ответы записывайте чётко и разборчиво.

Если прежде основную роль играли природные ресурсы страны, давая тем или иным странам сравнительные преимущества в системе мирохозяйственных связей, то ныне на первый план выдвинулись людские ресурсы – уровень развития знаний, творчество, мастерство, умение в широком смысле слова. На переднем плане исторической сцены окажутся те государства, которые будут способны обеспечить более высокий уровень образованности, воспитанности и мастерства людей во всех его проявлениях.

Накопление знаний, развитие науки, создание новых технологий и наукоёмких производств неизбежно повышает требования к общеобразовательному уровню и профессиональной квалификации каждого отдельного работника, всё более смещая акцент на развитие его духовных способностей как непременное условие успешного труда.

Фирмы всё больше ориентируются на работу в малых самоуправляемых командах. Среди особенностей, отличающих команду от группы, коллектива или организации, выделяются следующие характеристики: коллективная и взаимная ответственность за результаты совместной деятельности; специализация и взаимодополняемость ролей. Причины роста популярности командной организации труда: рост конкуренции, технологические достижения, необходимость решения сложных проблем, требование соответствия быстрым темпам перемен, текучесть кадров. Причём в этих условиях предпочтение отдается людям с более высоким уровнем образования, в том числе даже для работы на конвейере. Потребности в рабочей силе стали выражаться не столько в количественных, сколько в качественных показателях.

(По А.М. Новикову)

скачано с сайта myotveti.ru

21 Составьте план текста. Для этого выделите основные смысловые фрагменты текста и озаглавьте каждый из них.

22 Какие факторы, по мнению автора, неизбежно повышают требования к общеобразовательному уровню и профессиональной квалификации каждого отдельного работника? (Используя текст, укажите три фактора.) Какие ресурсы, по мнению автора, на современном этапе предоставляют странам сравнительные преимущества в системе мирохозяйственных связей? Как, по мнению автора, изменились показатели, выражающие потребность в рабочей силе?

23 Какие характеристики/особенности команды, отличающие её от группы, коллектива или организации, приводит автор? (Укажите любые две характеристики/особенности.) Приведите пример (ситуацию), иллюстрирующую каждую указанную Вами характеристику/особенность (всего два примера). В каждом случае укажите, какие преимущества имеет командная работа благодаря этой характеристике/особенности. (Сначала приведите пример, затем укажите преимущество.)

24 Автор утверждает, что одной из причин роста популярности командной организации труда является необходимость решения сложных проблем. Используя текст и обществоведческие знания, приведите два объяснения, почему командная работа облегчает решение сложных проблем.

скачано с сайта myotveti.ru

Тренировочная работа №5 по ОБЩЕСТВОЗНАНИЮ
9 класс
17 мая 2022 года
Вариант ОБ2190503

Выполнена: ФИО_____ класс _____

Инструкция по выполнению работы

Тренировочная работа включает в себя 24 задания: 16 заданий с кратким ответом и 8 заданий с развёрнутым ответом.

На выполнение тренировочной работы по обществознанию отводится 3 часа (180 минут).

Ответы к заданиям 2–4, 7–11, 13, 14, 16–18 записываются в виде одной цифры, которая соответствует номеру правильного ответа. Ответом к заданиям 15, 19 является последовательность цифр. Ответом к заданию 20 является слово (словосочетание). Ответы запишите в поле ответа в тексте работы без запятых, пробелов и прочих символов.

Задания 1, 5, 6, 12, 21–24 выполняются на отдельном чистом листе. Для выполнения заданий 21–24 необходимо: выбрать нужную информацию из текста, раскрыть (в том числе на примерах) его отдельные положения; соотнести сведения из текста со знаниями, полученными при изучении курса; применить имеющиеся знания для анализа социальных ситуаций; высказать и обосновать собственное мнение.

Ответы записываются яркими чёрными чернилами. Допускается использование гелевой или капиллярной ручки.

При выполнении заданий можно пользоваться черновиком. **Записи в черновике не учитываются при оценивании работы.**

Баллы, полученные Вами за выполненные задания, суммируются. Постарайтесь выполнить как можно больше заданий и набрать наибольшее количество баллов.

После завершения работы проверьте, чтобы ответ на каждое задание был записан под правильным номером.

Желаем успеха!

скачано с сайта myotveti.ru

Для ответов на задания 1, 5, 6 и 12 используйте отдельные листы. Запишите сначала номер задания, а затем – ответ к нему. Ответы записывайте чётко и разборчиво.
Ответами к заданиям 2–4, 7–11, 13–20 являются цифра, последовательность цифр или слово (словосочетание).

1 Какие два из перечисленных понятий используются в первую очередь при описании духовной сферы общества?

Государство; ценности; инфляция; наука; обязанности.

Выпишите соответствующие понятия и раскройте смысл любого одного из них.
Ответ запишите на отдельном листе, указав номер задания.

2 Редакция журнала «Растения и животные» на деньги благотворительного фонда подготовила специальный выпуск, посвящённый исчезающим видам животных. К средствам данной деятельности относится(-ются)

1) редакция журнала
2) исчезающие виды животных
3) деньги благотворительного фонда
4) сотрудники редакции

Ответ: ☐

3 В городе открыли три новых детских сада, и теперь все дети младше 7 лет получили возможность посещать эти детские учреждения. К какому уровню образования в соответствии с законом «Об образовании в РФ» относится посещение детского сада?

1) среднее общее образование
2) основное общее образование
3) начальное общее образование
4) дошкольное образование

Ответ: ☐

скачано с сайта myotveti.ru

4 Верны ли следующие суждения о функциях религии?
А. Религия регулирует поведение людей в обществе и воспитывает человека.
Б. Религия выполняет мировоззренческую функцию.

1) верно только А
2) верно только Б
3) верны оба суждения
4) оба суждения неверны

Ответ:

5 Рассмотрите фотографию.

Какой вид экономической деятельности осуществляют люди, изображённые на фотографии?
Используя обществоведческие знания, факты социальной жизни и личный социальный опыт, сформулируйте два правила рационального осуществления этого вида деятельности, и кратко поясните каждое из правил.
Ответ запишите на отдельном листе, указав номер задания.

6 Алина Альбертовна получила электронное письмо, которое содержало предупреждение о том, что произошла утечка базы данных клиентов известного банка. Для того, чтобы проверить наличие или отсутствие своих данных у взломщиков, клиенту предлагалось перейти по ссылке на указанный сайт и ввести данные своей карты. В чём состоит опасность данной ситуации для личных финансов Алины Альбертовны? Как ей правильно поступить в данной ситуации?
Ответ запишите на отдельном листе, указав номер задания.

скачано с сайта myotveti.ru

7 Что из перечисленного относится к признакам рыночной экономики?

1) государственное ценообразование
2) использование факторов производства
3) высокий уровень развития сельского хозяйства
4) конкуренция товаропроизводителей

Ответ:

8 Открытие новых залежей медных руд на территории государства стало сенсацией в СМИ. К какому фактору производства относятся медные руды?

1) предпринимательские способности
2) земля
3) капитал
4) труд

Ответ:

9 Верны ли следующие суждения о деятельности предпринимателя?

А. Деятельность предпринимателя осуществляется с целью получения прибыли.

Б. Деятельность предпринимателя будет эффективной, если она направлена на производство товаров и услуг, которые удовлетворяют потребности людей.

1) верно только А
2) верно только Б
3) верны оба суждения
4) оба суждения неверны

Ответ:

скачано с сайта myotveti.ru

10 Получив образование в Медицинской Академии, бывшая медсестра Вера Петровна Осипова была назначена на должность участкового врача. В данной ситуации образование – пример

1) социальной иерархии
2) социального лифта
3) социального статуса
4) социальной роли

Ответ:

11 Верны ли следующие суждения о социальной мобильности?

А. Социальная мобильность – это сложившаяся в обществе система социальных ролей и статусов.

Б. Примером социальной мобильности является переезд в другой город.

1) верно только А
2) верно только Б
3) верны оба суждения
4) оба суждения неверны

Ответ:

скачано с сайта myotveti.ru

12 Социологи провели опрос совершеннолетних мужчин и женщин о том, без чего они не могут представить свой день. Результаты опроса (в % от числа отвечавших, можно было дать несколько ответов) представлены на гистограмме.

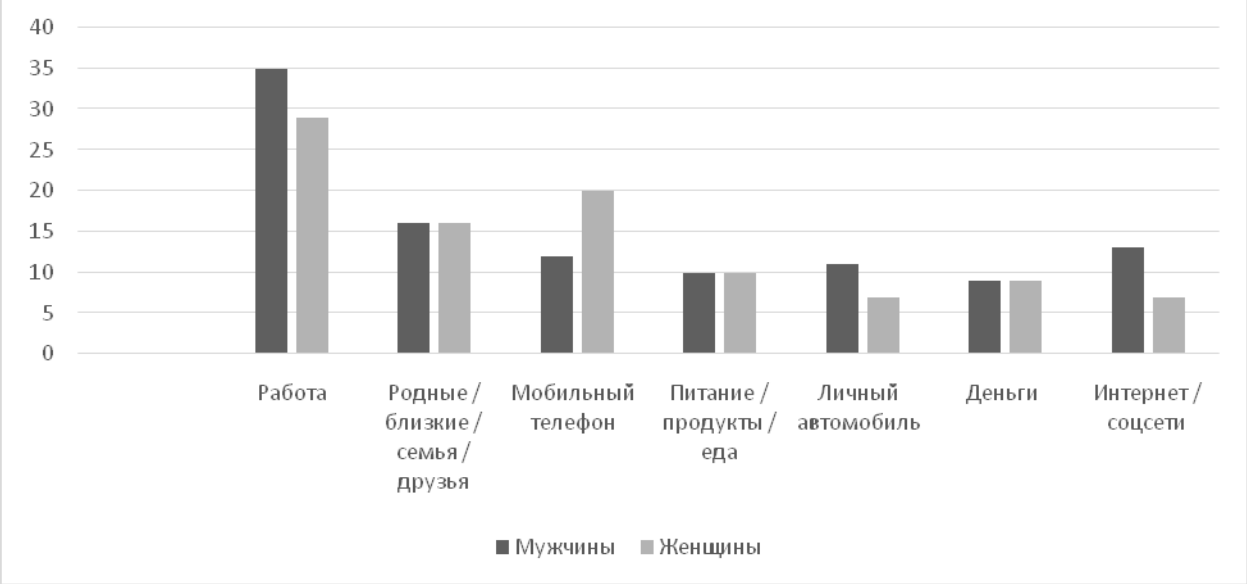

Сформулируйте по одному выводу: а) о сходстве и б) о различии в позициях групп опрошенных. Выскажите предположение о том, чем объясняются указанные Вами: а) сходство; б) различие.
Ответ запишите на отдельном листе, указав номер задания.

13 В государстве Z верховная власть передаётся из поколения в поколение представителями одной династии. Государство образовано из нескольких областей, в каждой из которых действует избираемый населением представительный орган. Законы, принятые в каждой области, не могут противоречить конституции страны Z. На основе приведённых данных можно сделать вывод, что государство Z

1) республика
2) демократическое государство
3) светское государство
4) федерация

Ответ: ☐

скачано с сайта myotveti.ru

14 Верны ли следующие суждения о власти народа в Российской Федерации?

А. Народ осуществляет свою власть непосредственно, голосуя на выборах и референдумах.

Б. Народ осуществляет свою власть через избранные им органы государственной власти и органы местного самоуправления.

1) верно только А
2) верно только Б
3) верны оба суждения
4) оба суждения неверны

Ответ: ☐

15 Установите соответствие между примерами и особенностями человека как биологического или социального существа, которые они иллюстрируют: к каждому элементу первого столбца подберите соответствующий элемент из второго столбца.

ПРИМЕР	ОСОБЕННОСТЬ ЧЕЛОВЕКА
А) генетические заболевания	1) человек как биологическое существо
Б) острота зрения	2) человек как социальное существо
В) умение водить машину	
Г) ораторское мастерство	
Д) физиологические потребности	

Ответ:

А	Б	В	Г	Д

16 Одним из условий заключения брака в Российской Федерации является

1) получение среднего общего образования
2) наличие источников дохода
3) взаимное добровольное согласие будущих супругов
4) отсутствие хронических заболеваний

Ответ: ☐

скачано с сайта myotveti.ru

17 Ольга Константиновна отправляется на курорт с пятилетним внуком Антоном. Для оформления доверенности на поездку родители Антона должны обратиться

1) к прокурору
2) в полицию
3) к нотариусу
4) к адвокату

Ответ: ☐

18 Верны ли следующие суждения о юридической ответственности?

А. Юридическая ответственность за совершение ряда преступлений установлена с четырнадцатилетнего возраста.

Б. Работник, не достигший совершеннолетия, не может быть привлечён к дисциплинарной ответственности.

1) верно только А
2) верно только Б
3) верны оба суждения
4) оба суждения неверны

Ответ: ☐

19 Школьники изучали сущность и содержание гражданской правоспособности и дееспособности. Выберите и запишите в первую колонку таблицы порядковые номера черт сходства гражданской правоспособности и дееспособности, а во вторую колонку – порядковые номера черт различия.

1) признание в равной мере за всеми гражданами
2) связь с правами и обязанностями граждан
3) возникновение в полном объёме по достижении восемнадцатилетнего возраста
4) возможность ограничения в случаях и в порядке, установленных законом

Ответ:

Черты сходства		Черты различия	

скачано с сайта myotveti.ru

20 Заполните пропуск в таблице.

Субъект государственной власти	**Полномочие**
Конституционный суд Российской Федерации	Разрешает дела о соответствии федеральных законов Конституции Российской Федерации
… суд Российской Федерации	Высший судебный орган по гражданским делам, разрешению экономических споров, уголовным, административным делам

Ответ: _____.

Прочитайте текст и выполните задания 21–24. Для записи ответов на задания используйте отдельные листы. Запишите сначала номер задания, а затем – развёрнутый ответ на него. Ответы записывайте чётко и разборчиво.

Взаимодействие человека и природы и осознание этого взаимодействия людьми допускает разные варианты, например, зависимость человека от природы; зависимость природы от человека; единство человека и природы. Все эти варианты отражены в истории человечества. Первый вариант взаимодействия человека и природы отразился в мифологических представлениях и в религиозных верованиях. Свою зависимость от природы человек выражал в представлениях о господстве внешних сил. Однако в борьбе за выживание человек не просто приспосабливался к природным условиям. Люди осваивали новые территории, постоянно совершенствовали орудия труда, одомашнили животных, освоили скотоводство и земледелие, заселили всю планету.

Своё господство над природой человек осознал в процессе накопления технологического и научного опыта. Он воспринимал себя в качестве субъекта творческой, активной преобразующей силы, а природу – в качестве объекта деятельности, допускающего любое воздействие. Это отношение человека к природе в середине XVII века выразил Галилео Галилей, который писал: «Все возникновения, изменения и т.д., какие только происходят на Земле, направлены для пользы, удобства и блага человека».

Осознание единства человека и природы мы переживаем в настоящее время. В массовом сознании идея единства человека и природы уже укоренилась. Она находит отражение в общественной практике, в формировании и совершенствовании экологического законодательства. Осознание единства человека и природы выражается в ответственности человека за свои действия перед природой.

(По М.Р. Шагиахметову)

скачано с сайта myotveti.ru

21 Составьте план текста. Для этого выделите основные смысловые фрагменты текста и озаглавьте каждый из них.

22 В каких формах, по мнению автора, отразились представления о зависимости человека от природы? (Укажите две формы.) Какие виды опыта повлияли на осознание человеком своего господства над природой? (Укажите два вида.) В чём, по мнению автора, выражается осознание единства человека и природы?

23 Как, по объяснению автора, воспринимал природу человек, осознавший своё господство над нею? Приведите два примера (ситуации) в различных сферах жизни общества, которые свидетельствуют об ошибочности подобного восприятия природы (сначала приведите пример, затем назовите сферу).

24 Автор приводит утверждение Г. Галилея о том, что «все изменения на Земле направлены для пользы, удобства и блага человека». Используя текст и обществоведческие знания, приведите два аргумента (объяснения), которые может высказать человек, не согласный с приведённым утверждением.

скачано с сайта myotveti.ru

Тренировочная работа №5 по ОБЩЕСТВОЗНАНИЮ
9 класс
17 мая 2022 года
Вариант ОБ2190504

Выполнена: ФИО_____ класс _____

Инструкция по выполнению работы

Тренировочная работа включает в себя 24 задания: 16 заданий с кратким ответом и 8 заданий с развёрнутым ответом.

На выполнение тренировочной работы по обществознанию отводится 3 часа (180 минут).

Ответы к заданиям 2–4, 7–11, 13, 14, 16–18 записываются в виде одной цифры, которая соответствует номеру правильного ответа. Ответом к заданиям 15, 19 является последовательность цифр. Ответом к заданию 20 является слово (словосочетание). Ответы запишите в поле ответа в тексте работы без запятых, пробелов и прочих символов.

Задания 1, 5, 6, 12, 21–24 выполняются на отдельном чистом листе. Для выполнения заданий 21–24 необходимо: выбрать нужную информацию из текста, раскрыть (в том числе на примерах) его отдельные положения; соотнести сведения из текста со знаниями, полученными при изучении курса; применить имеющиеся знания для анализа социальных ситуаций; высказать и обосновать собственное мнение.

Ответы записываются яркими чёрными чернилами. Допускается использование гелевой или капиллярной ручки.

При выполнении заданий можно пользоваться черновиком. **Записи в черновике не учитываются при оценивании работы.**

Баллы, полученные Вами за выполненные задания, суммируются. Постарайтесь выполнить как можно больше заданий и набрать наибольшее количество баллов.

После завершения работы проверьте, чтобы ответ на каждое задание был записан под правильным номером.

Желаем успеха!

скачано с сайта myotveti.ru

Для ответов на задания 1, 5, 6 и 12 используйте отдельные листы. Запишите сначала номер задания, а затем – ответ к нему. Ответы записывайте чётко и разборчиво.
Ответами к заданиям 2–4, 7–11, 13–20 являются цифра, последовательность цифр или слово (словосочетание).

1 Какие два из перечисленных понятий используются в первую очередь при описании политической сферы общества?

Нравственность; спрос; суверенитет; власть; банк.

Выпишите соответствующие понятия и раскройте смысл любого одного из них.
Ответ запишите на отдельном листе, указав номер задания.

2 Ярослав Иванов занимается хоккеем в составе детской хоккейной команды известного спортивного клуба. Для участия в региональном чемпионате молодые хоккеисты должны выполнить специальные нормативы, и Ярослав занимается общефизической подготовкой каждый день. Целью деятельности молодых хоккеистов является

1) ежедневные занятия
2) участие в региональном чемпионате
3) занятия хоккеем
4) специальные нормативы

Ответ: ☐

3 После успешного участия в творческом конкурсе тринадцатилетний Николай был зачислен в художественную студию при Доме детского творчества. Какому виду образования соответствует обучение в художественной студии?

1) дополнительное образование детей и взрослых
2) общее образование
3) среднее профессиональное образование
4) дополнительное профессиональное образование

Ответ: ☐

скачано с сайта myotveti.ru

4 Верны ли следующие суждения об образовании?

А. Образование – это целенаправленный и единый процесс воспитания и обучения человека.

Б. Образование направлено на передачу социального опыта от поколения к поколению.

1) верно только А
2) верно только Б
3) верны оба суждения
4) оба суждения неверны

Ответ: ☐

5 Рассмотрите фотографию.

Какой вид деятельности осуществляют члены семьи?
Используя обществоведческие знания, факты социальной жизни и личный социальный опыт, сформулируйте два правила рационального осуществления этого вида деятельности, и кратко поясните каждое из правил.
Ответ запишите на отдельном листе, указав номер задания.

6 Гражданин А. потерял кошелёк, в котором были деньги, справки и пластиковая банковская карта. В чём состоит опасность данной ситуации для личных финансов гражданина А.? Как ему правильно поступить в данной ситуации?
Ответ запишите на отдельном листе, указав номер задания.

скачано с сайта myotveti.ru

7 Что из перечисленного характеризует роль государства в смешанной экономике? Государство

1) выступает ведущим производителем товаров и услуг
2) устанавливает государственную собственность на факторы производства
3) устанавливает цены на товары и услуги
4) поддерживает конкуренцию производителей товаров и услуг

Ответ:

8 В государстве Z снизили ставку подоходного налога. К какому виду налогов относится подоходный?

1) прямой
2) прогрессивный
3) косвенный
4) региональный

Ответ:

9 Верны ли следующие суждения об инфляции?

А. При инфляции происходят длительный и устойчивый рост цен и снижение покупательной способности денег.

Б. В условиях инфляции растут деловая активность бизнеса и уровень жизни населения.

1) верно только А
2) верно только Б
3) верны оба суждения
4) оба суждения неверны

Ответ:

скачано с сайта myotveti.ru

10 Социологический опрос показал, что у значительной части опрошенных все члены семьи готовы к выполнению любых обязанностей и совместно решают все семейные вопросы. Такие отношения складываются в

1) патриархальной семье
2) демократической семье
3) традиционной семье
4) нуклеарной семье

Ответ: ☐

11 Верны ли следующие суждения о социальных санкциях?
А. Общественное осуждение – пример формальной социальной санкции.
Б. Все социальные санкции в демократическом обществе регулируются законодательно.

1) верно только А
2) верно только Б
3) верны оба суждения
4) оба суждения неверны

Ответ: ☐

скачано с сайта myotveti.ru

12 В ходе опросов совершеннолетних граждан страны Z социологи изучали факторы, которые влияли на выбор ими профессии. Результаты опроса (в % от числа отвечавших, можно было дать до двух ответов) представлены на гистограмме.

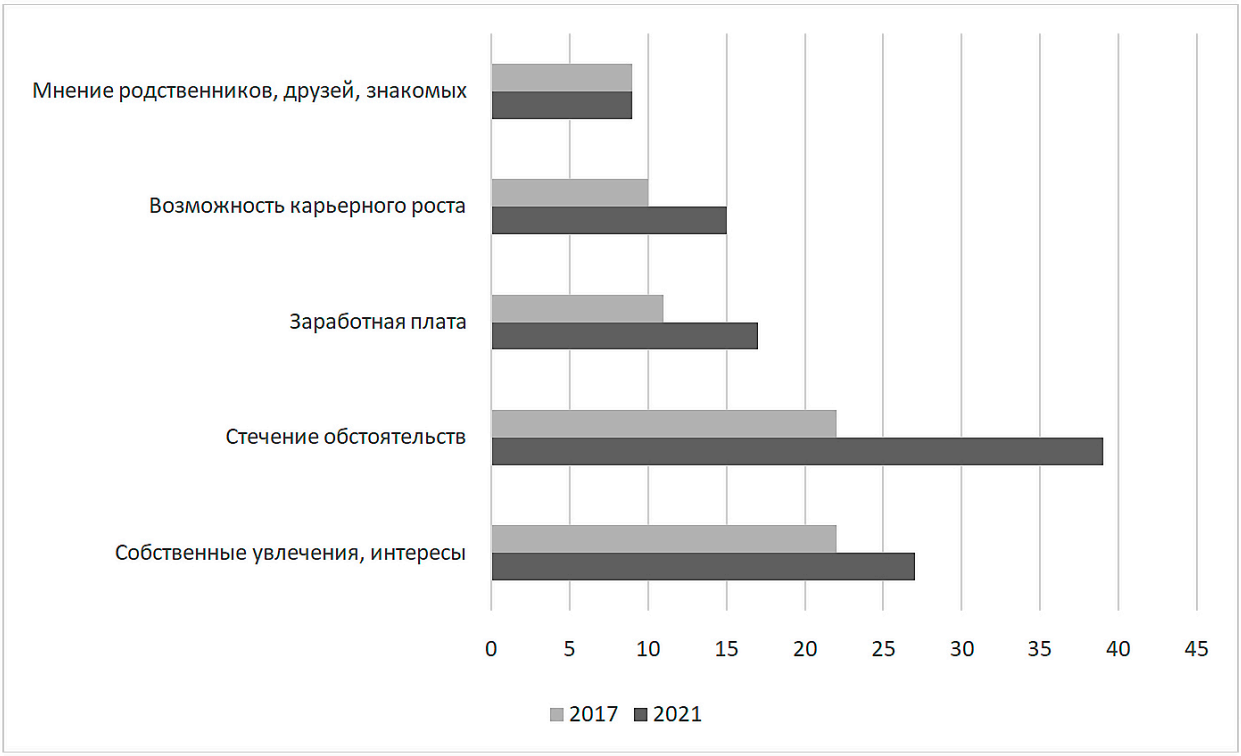

Сформулируйте по одному выводу: а) о сходстве и б) о различии в позициях групп опрошенных. Выскажите предположение о том, чем объясняются указанные Вами: а) сходство; б) различие.
Ответ запишите на отдельном листе, указав номер задания.

13 Правитель страны Z является главой правительства, председателем законодательного собрания, возглавляет судебную систему. Население страны Z имеет право избирать законодательное собрание, голосуя за кандидатов по списку главы правительства. Деятельность политических партий и организаций запрещена, частную жизнь людей контролируют правительственные органы. На основе приведённых данных можно сделать вывод что страна Z – государство

1) демократическое
2) монархическое
3) федеративное
4) тоталитарное

Ответ: ☐

скачано с сайта myotveti.ru

14 Верны ли следующие суждения о политических партиях?

А. Политические партии стремятся участвовать в осуществлении государственной власти.

Б. Политические партии объединяют людей по профессиональному признаку.

1) верно только А
2) верно только Б
3) верны оба суждения
4) оба суждения неверны

Ответ: ☐

15 Установите соответствие между примерами и функциями, которые выполняют деньги в этих примерах: к каждому элементу первого столбца подберите соответствующий элемент из второго столбца.

ПРИМЕР	ФУНКЦИЯ ДЕНЕГ
А) Чайный сервиз стоит 3 тыс. руб.	1) средство обращения
Б) Петровы приобрели компьютер.	2) мера стоимости
В) Многие используют Интернет для оплаты коммунальных платежей.	3) средство платежа
Г) В сетевом магазине можно оформить кредит на покупку товара.	
Д) В торговом зале меняли ценники на товары, срок годности которых заканчивается.	

Ответ:

А	Б	В	Г	Д

16 Отношения в сфере управленческой деятельности государственных органов регулирует

1) гражданское право
2) трудовое право
3) административное право
4) уголовное право

Ответ: ☐

скачано с сайта myotveti.ru

17 Желая проверить оперативность правоохранительных органов, гражданин сообщил по телефону о минировании вокзала. Действия гражданина нарушают нормы

1) конституционного права
2) уголовного права
3) административного права
4) гражданского права

Ответ: ☐

18 Верны ли следующие суждения о конституционных правах граждан Российской Федерации?

А. Право на свободу и личную неприкосновенность относится к группе политических прав.

Б. Право участвовать в управлении делами государства относится к группе гражданских прав.

1) верно только А
2) верно только Б
3) верны оба суждения
4) оба суждения неверны

Ответ: ☐

19 Всеволод делает уроки, а его сестрёнка Наташа играет в куклы. Выберите и запишите в первую колонку таблицы порядковые номера черт сходства учебной и игровой деятельности, а во вторую колонку – порядковые номера черт различия.

1) помогает познать окружающий мир
2) формирует качества личности
3) протекает в воображаемой ситуации
4) ведущей целью является освоение знаний, умений и навыков

Ответ:

Черты сходства		Черты различия	

скачано с сайта myotveti.ru

20 Заполните пропуск в таблице.

Характеристика государства Российская Федерация	**Сущность характеристики**
… государство	Государственная власть в Российской Федерации осуществляется на основе разделения на законодательную, исполнительную и судебную
Демократическое государство	Единственным источником власти является многонациональный народ

Ответ: _____.

Прочитайте текст и выполните задания 21–24. Для записи ответов на задания используйте отдельные листы. Запишите сначала номер задания, а затем – развёрнутый ответ на него. Ответы записывайте чётко и разборчиво.

Если прежде основную роль играли природные ресурсы страны, давая тем или иным странам сравнительные преимущества в системе мирохозяйственных связей, то ныне на первый план выдвинулись людские ресурсы – уровень развития знаний, творчество, мастерство, умение в широком смысле слова. На переднем плане исторической сцены окажутся те государства, которые будут способны обеспечить более высокий уровень образованности, воспитанности и мастерства людей во всех его проявлениях.

Накопление знаний, развитие науки, создание новых технологий и наукоёмких производств неизбежно повышает требования к общеобразовательному уровню и профессиональной квалификации каждого отдельного работника, всё более смещая акцент на развитие его духовных способностей как непременное условие успешного труда.

Фирмы всё больше ориентируются на работу в малых самоуправляемых командах. Среди особенностей, отличающих команду от группы, коллектива или организации, выделяются следующие характеристики: коллективная и взаимная ответственность за результаты совместной деятельности; специализация и взаимодополняемость ролей. Причины роста популярности командной организации труда: рост конкуренции, технологические достижения, необходимость решения сложных проблем, требование соответствия быстрым темпам перемен, текучесть кадров. Причём в этих условиях предпочтение отдается людям с более высоким уровнем образования, в том числе даже для работы на конвейере. Потребности в рабочей силе стали выражаться не столько в количественных, сколько в качественных показателях.

(По А.М. Новикову)

скачано с сайта myotveti.ru

21 Составьте план текста. Для этого выделите основные смысловые фрагменты текста и озаглавьте каждый из них.

22 Какие факторы, по мнению автора, неизбежно повышают требования к общеобразовательному уровню и профессиональной квалификации каждого отдельного работника? (Используя текст, укажите три фактора.) Какие ресурсы, по мнению автора, на современном этапе предоставляют странам сравнительные преимущества в системе мирохозяйственных связей? Как, по мнению автора, изменились показатели, выражающие потребность в рабочей силе?

23 Какие характеристики/особенности команды, отличающие её от группы, коллектива или организации, приводит автор? (Укажите любые две характеристики/особенности.) Приведите пример (ситуацию), иллюстрирующую каждую указанную Вами характеристику/особенность (всего два примера). В каждом случае укажите, какие преимущества имеет командная работа благодаря этой характеристике/особенности. (Сначала приведите пример, затем укажите преимущество.)

24 Автор утверждает, что одной из причин роста популярности командной организации труда является необходимость решения сложных проблем. Используя текст и обществоведческие знания, приведите два объяснения, почему командная работа облегчает решение сложных проблем.

скачано с сайта myotveti.ru